۷- جاهای خالی را با کلمات مناسب کامل کنید.

الف- هر مثلث که سه ضلع هم اندازه داشته باشد مثلث .... نام دارد.

ب- هر مثلث که دو ضلع هم اندازه داشته باشد مثلث .... نام دارد.

۸- مساحت مربعی را که طول یک ضلع آن ۳ سانتی متر است را حساب کنید.

۹- مساحت مستطیلی را که طول آن ۳ و عرض آن ۲ سانتی متر است را حساب کنید.

۱۰- محیط شکل های زیر را بدست آورید.





۱۱- قطر شکل ها را رسم کنید.



من الله التوفیق

« بنام خداوند دانا و توانا »

نام و نام خانوادگی :

آزمون درس ریاضی کلاس سوم دبستان شهید عطوفت صفحه ۱۱۹-۸۰

سال تحصیلی ۹۲/۹۳

۱- حسین ۲۵ عکس گل دارد. برادرش ۱۰ عکس گل از او کمتر دارد این دو برادر روی هم چند عکس گل دارند ؟

۲- علامت < = > بگذارید :

۴۹۷۰ ◯ ۴۷۹۰   ۹۰+۳۷ ◯ ۱۲۷

۸۵۰-۱۵۰ ◯ ۶۱۰+۵۰   ۱۱۰۰+۲۰۰ ◯ ۱۴۰۰-۳۰۰

۳- حاصل جمع و تفریق های زیر را به دست آورید .

۴۲۰۰ + ۳۰۷۰	۵۴۳۵ + ۱۸۷۶	۹۴۵۳ - ۸۲۶۰	۷۴۳۸ - ۶۵۲۹

۴- محمود ۶۶۴۷ ریال در قلک خود پول داشت او ۲۳۲۵ ریال از پول هایش را خرج کرد حالا چقدر پول دارد ؟

چند سکه ۱ ریالی دارد ؟ ____

چند سکه ۱۰ ریالی دارد ؟ ____

چند سکه ۱۰۰ ریالی دارد ؟ ____

چند سکه ۱۰۰۰ ریالی دارد ؟ ____

۵- با رقم های ۷ و ۴ و ۲ و ۱ بزرگترین و کوچکترین عدد ۴ رقمی را بنویسید .

ب =

ک =

۶- حاصل جمع و تفریق زیر را بنویسید .

۶۰۰۰-۸۰۰ =   ۷۴۰۰ + ۶۰۰ =